أتدرب وأحل المسائل

SSS,SAS,HLتطابق المثلثات ()

أبين أن كل زوج من المثلثات الآتية متطابق أم لا، مبرراً إجابتي.

1)

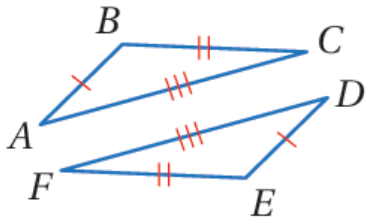

العباراتُ	المبرراتُ
1) $\overline{AB} \cong \overline{DE}$	1) معطى
2) $\overline{BC} \cong \overline{EF}$	2) معطى
3) $\overline{AC} \cong \overline{DF}$	3) معطى
4) $\Delta ABC \cong \Delta DEF$	4) SSS

متطابقان.

2)

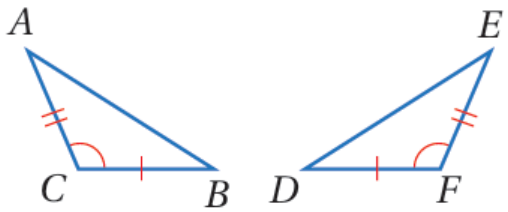

العباراتُ	المبرراتُ
1) $\overline{AC} \cong \overline{EF}$	1) معطى
2) $\angle ACB, \angle EFD$	2) معطى
3) $\overline{CB} \cong \overline{FD}$	3) معطى
4) $\Delta ACB \cong \Delta EFD$	4) SAS

متطابقان.

3)

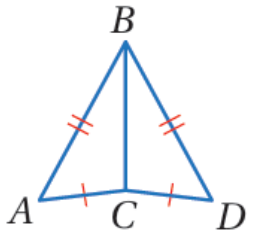

العباراتُ	المبرراتُ
1) $\overline{AB} \cong \overline{DB}$	1) معطى
2) $\overline{AC} \cong \overline{DC}$	2) معطى
3) $\overline{BC} \cong \overline{BC}$	3) ضلع مشترك
4) $\Delta ABC \cong \Delta DBC$	4) SSS

متطابقان.

4)

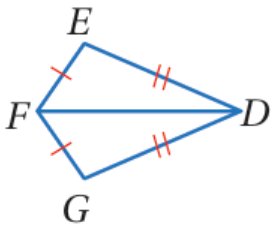

العباراتُ	المبرراتُ
1) $\overline{FE} \cong \overline{FG}$	1) معطى
2) $\overline{ED} \cong \overline{GD}$	2) معطى
3) $\overline{FD} \cong \overline{FD}$	3) ضلع مشترك
4) $\Delta FED \cong \Delta FGD$	4) SSS

متطابقان.

5) أستعمل المعلومات المعطاة في الشكل الآتي لكتابة برهان ذي عمودين، لأثبت أن $\Delta ABC \square \Delta CDA$

العباراتُ	المبرراتُ
1) $\overline{AB} \cong \overline{CD}$	1) معطى
2) $\angle B, \angle D$ زاويتان قائمتان	2) معطى
3) $\Delta ABC, \Delta CDA$ مثلثان قائما الزاوية	3) تعريف المثلث القائم الزاوية
4) $\overline{AC} \cong \overline{AC}$	4) ضلع مشترك
5) $\Delta ABC \cong \Delta CDA$	5) HL

6) أستعمل المعلومات المعطاة في الشكل الآتي لكتابة برهان ذي عمودين، لأثبت أن $\Delta NPQ \square \Delta RST$

العباراتُ	المبرراتُ
1) $\overline{NP} \cong \overline{RS}$	1) معطى
2) $\overline{PQ} \cong \overline{ST}$	2) معطى
3) $\overline{NQ} \cong \overline{RT}$	3) معطى
4) $\Delta NPQ \cong \Delta RST$	4) SSS

7) أستعمل المعلومات المعطاة في الشكل الآتي، لكتابة برهان سهمي، لأثبت أن $\Delta SPQ \square \Delta TPQ$

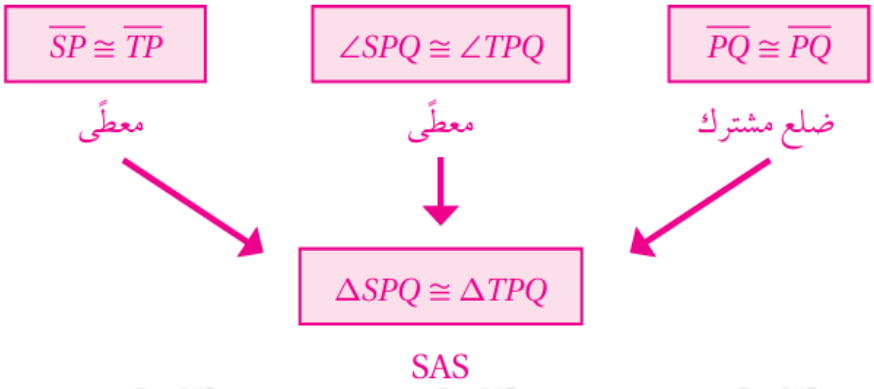

8) أستعمل المعلومات المعطاة في الشكل الآتي، لكتابة برهان سهمي، لأثبت أن $\Delta PQT \square \Delta RST$

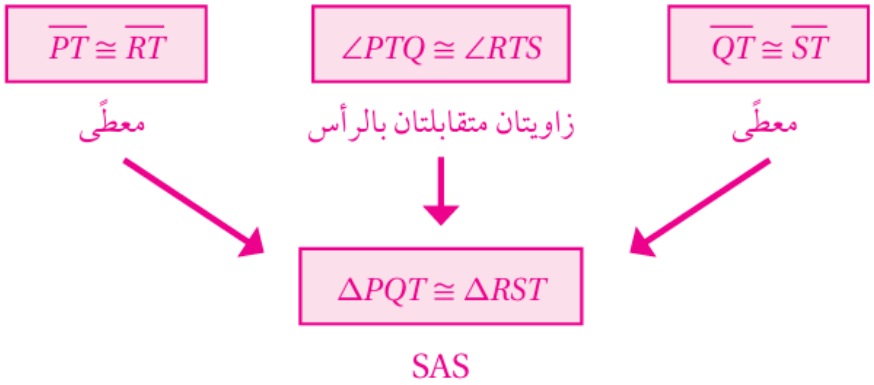

9) أستعمل المعلومات المعطاة في الشكل الآتي لكتابة برهان ذي عمودين، لأثبت أن $\angle A \cong \angle D$

العباراتُ	المبرراتُ
1) $\overline{CA} \cong \overline{CD}$	1) معطى
2) $\overline{AB} \cong \overline{DB}$	2) معطى
3) $\overline{CB} \cong \overline{CB}$	3) ضلع مشترك
4) $\Delta CAB \cong \Delta CDB$	4) SSS
5) $\angle A \cong \angle D$	5) زاويتان متناظرتان في مثلثين متطابقين

10) أستعمل المعلومات المعطاة في الشكل الآتي، لكتابة برهان سهمي، لأثبت أن $JM \cong ML$

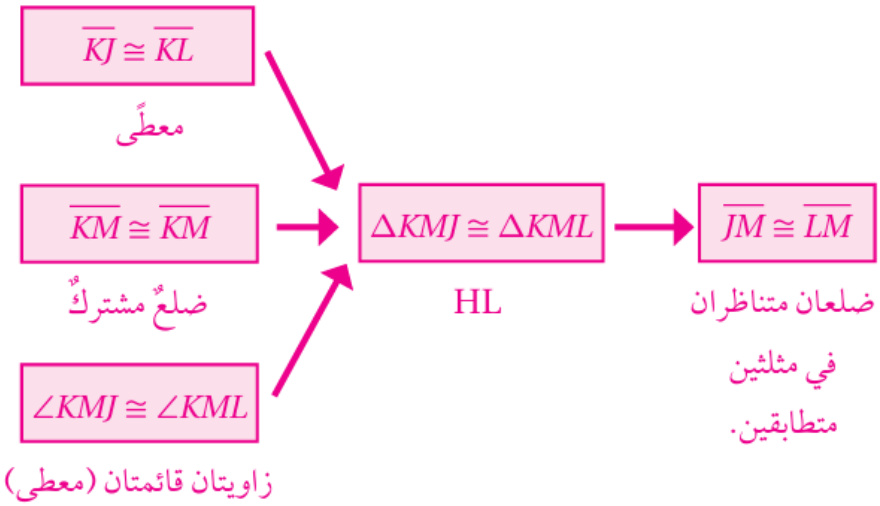

مصباح: يبين الشكل المجاور الضوء الناشىء عن مصباحين يبعدان المسافة نفسها عن أرضية مسرح:

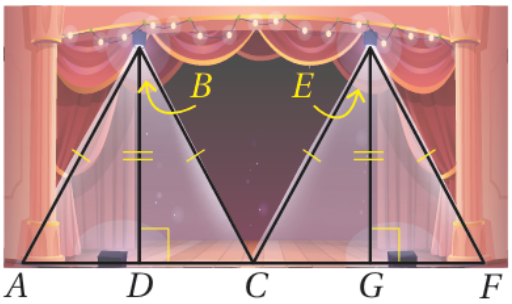

11) أثبت أن $\Delta ABD \cong \Delta CBD$

العباراتُ	المبرراتُ
1) $\overline{AB} \cong \overline{CB}$	1) معطى
2) $\angle ADB, \angle CDB$ زاويتان قائمتان	2) CDB معطى، الزاويتان متجاورتان على خط مستقيم
3) $\Delta ABD, \Delta CBD$ مثلثان قائما الزاوية	3) تعريف المثلث القائم الزاوية
4) $\overline{BD} \cong \overline{BD}$	4) ضلع مشترك
5) $\Delta ABD \cong \Delta CBD$	5) HL

12) هل المثلثات الأربعة الموضحة في الشكل متطابقة؟ أبرر أجابتي.

نعم؛ لأن كل مثلثين منهما يتطابقان بالحالة HL .

13) اتصالات: برج اتصالات عمودي على الأرض، يتصل رأسه بكل من النقاط D و B و C عن طريق كابلات لها الطول نفسه كما في الشكل المجاور.

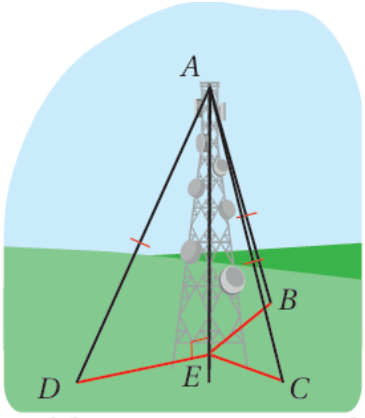

أثبت أن ΔAEB و ΔAEC و ΔAED متطابقة.

العباراتُ	المبرراتُ
1) $\overline{AD} \cong \overline{AB} \cong \overline{AC}$	1) معطى
2) $\angle AED, \angle AEB, \angle AEC$ زوايا قائمة	2) معطى
3) $\Delta AED, \Delta AEB, \Delta AEC$ مثلثات قائمة الزاوية	3) تعريف المثلث القائم الزاوية
4) $\overline{AE} \cong \overline{AE} \cong \overline{AE}$	4) ضلع مشترك
5) $\Delta AED \cong \Delta AEB \cong \Delta AEC$	5) HL